Participant ID:	
Participant Name:	
Test Center Name:	
Test Date:	04/09/2017
Test Time:	12:30 PM - 2:30 PM
Marks Obtained:	

Section : तार्किक और मानसिक क्षमता

Q.1 A और B भाई हैं । E पुत्री है F की । F पत्नी है B की, तो E का A से क्या सम्बन्ध है ?

Ans
1. बहन
2. भतीजी
3. भाभी
4. पुत्री

Question ID : **6172496814**
Status : **Answered**
Chosen Option : **2**
Marks : **4.00**

Q.2 यदि P प्रदर्शित करता है ÷ को, + को R द्वारा प्रदर्शित किया जाता है, - को T द्वारा तथा × को W द्वारा प्रदर्शित किया जाता है, तो
24 R 16 P 8 W 6 T 9 = ?

Ans
1. 21
2. 27
3. 15
4. 147

Question ID : **6172497134**
Status : **Answered**
Chosen Option : **2**
Marks : **4.00**

Q.3 12 व्यक्ति किसी काम को 10 दिनों में कर सकते हैं । उस काम को 8 दिनों में करने के लिए कितने व्यक्तियों की आवश्यकता होगी ?

Ans
1. 15
2. 14
3. 16
4. 18

Question ID : **6172497554**
Status : **Answered**
Chosen Option : **1**
Marks : **4.00**

Q.4 49 लड़कों की एक पंक्ति में बायें छोर से सुभाष 27वाँ है, तथा दायें छोर से नरेश 27वाँ है तो बताओ दोनों के बीच कितने लड़के है?

Ans
1. 4
2. 5
3. 6
4. 3

Question ID : **6172496594**
Status : **Answered**
Chosen Option : **4**
Marks : **4.00**

Q.5 निम्न में से किस उत्तर आकृति द्वारा प्रश्न आकृति पूरी होगी?

Question ID : **6172498454**
Status : **Not Answered**
Chosen Option : **--**

Test Prime

ALL EXAMS, ONE SUBSCRIPTION

40,000+ Mock Tests

Personalised Report Card

Unlimited Re-Attempt

500+ Exam Covered

Previous Year Papers

500% Refund

DOWNLOAD NOW

Adda247 GET IT ON Google Play

Marks : **0.00**

Ans

✗ 1. 

✗ 2.

✓ 3.

✗ 4.

Q.6 निम्न में से किस उत्तर आकृति द्वारा प्रश्न आकृति पूरी होगी?

Question ID : **6172498514**
Status : **Answered**
Chosen Option : **1**
Marks : **-1.00**

Ans

✗ 1.

✗ 2.

✓ 3.

✗ 4.

Q.7 3 सेमी भुजा वाले किसी घन को 1 सेमी भुजा वाले छोटे घनों में विभाजीत किया जाता है, तो कुल मध्य घनों की संख्या कितनी होगी?

Question ID : **6172496894**
Status : **Not Answered**
Chosen Option : **--**
Marks : **0.00**

Ans

✗ 1. 6

✗ 2. 24

✓ 3. 12

✗ 4. 18

Q.8 नीचे दिए गए शब्दों में कौन-सा शब्द शब्दकोश के अनुसार पहले स्थान पर आएगा ?

Question ID : **6172496534**
Status : **Answered**
Chosen Option : **2**
Marks : **4.00**

Ans

✗ 1. Amid

✓ 2. Amen

✗ 3. Among

✗ 4. Amount

Adda247 GET IT ON Google Play

Q.9 यदि किसी सांकेतिक भाषा में "MASTER" को "632145" लिखा जाता है तो "TEARS" को उसी भाषा में कैसे लिखा जाएगा?

Ans
1. 35214
2. 25314
3. 14352
4. 52413

Question ID : **6172496379**
Status : **Answered**
Chosen Option : **3**
Marks : **4.00**

Q.10 रू. 3600 के कुल लाभ को क, ख और ग में इस अनुपात में वितरित किया जाना है क क : ख = 5 : 4 और ख : ग = 8 : 9, लाभ में ग का हिस्सा क्या होगा ?

Ans
1. रू. 1200
2. रू. 1650
3. रू. 1500
4. रू. 1700

Question ID : **6172497374**
Status : **Answered**
Chosen Option : **1**
Marks : **4.00**

Q.11 नीचे दी गई आकृति में कितने त्रिभुज हैं?

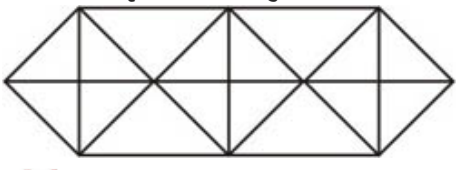

Ans
1. 14
2. 24
3. 28
4. 20

Question ID : **6172497974**
Status : **Answered**
Chosen Option : **3**
Marks : **4.00**

Q.12 निम्न प्रश्न में दिए गए विकल्पों में से प्रश्नवाचक चिन्ह के स्थान पर आने वाली संख्या ज्ञात किजीए।

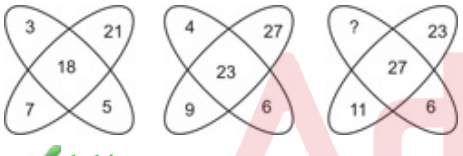

Ans
1. 14
2. 10
3. 18
4. 13

Question ID : **6172497254**
Status : **Not Answered**
Chosen Option : **--**
Marks : **0.00**

Q.13 आपका मुख दक्षिण-पश्चिम दिशा में है। यदि आप 135° दाईं ओर मुड़ जाएं, तो आपकी दिशा क्या होगी

Ans
1. दक्षिण-पूर्व
2. उत्तर-पूर्व
3. उत्तर
4. पूर्व

Question ID : **6172496714**
Status : **Answered**
Chosen Option : **3**
Marks : **4.00**

Q.14 यदि A की आय B की आय से 50 % कम है तो B की आय A की आय से कितने प्रतिशत अधिक है

Ans
1. 75
2. 50
3. 100
4. 125

Question ID : **6172497614**
Status : **Answered**
Chosen Option : **2**
Marks : **-1.00**

Adda247 GET IT ON Google Play

Q.15 जिस प्रकार राजा का सम्बन्ध सिंहासन से है, उसी प्रकार सवार का सम्बन्ध किससे है ?

Ans
✔ 1. सीट/पीठिका
✘ 2. घोडा
✘ 3. कुर्सी
✘ 4. काठी

Question ID : **6172496139**
Status : **Answered**
Chosen Option : **2**
Marks : **-1.00**

Q.16 जिस प्रकार हृदय का सम्बन्ध कार्डियोलॉजिस्ट से है, उसी प्रकार वृक्क का सम्बन्ध किससे है ?

Ans
✘ 1. ऑर्थोडाण्टिस्ट
✔ 2. नेफ्रोलोजिस्ट
✘ 3. अन्त:स्राव विज्ञानी
✘ 4. तन्त्रिका विज्ञानी

Question ID : **6172496140**
Status : **Answered**
Chosen Option : **3**
Marks : **-1.00**

Q.17 निम्नलिखित शब्दों को शब्दकोश के अनुसार व्यवस्थित किजिए। 1.Mask 2. Mate 3. Meal 4. Mart 5. Mash

Ans
✘ 1. 1, 2, 3, 5, 4
✘ 2. 4, 5, 3, 2, 1
✔ 3. 4, 5, 1, 2, 3
✘ 4. 3, 4, 5, 2, 1

Question ID : **6172496474**
Status : **Not Answered**
Chosen Option : **--**
Marks : **0.00**

Q.18 निम्न श्रृंखला में प्रश्नवाचक चिन्ह (?) के स्थान पर क्या आएगा
DIB, HMF, LQJ, ?

Ans
✘ 1. QVO
✘ 2. PVO
✔ 3. PUN
✘ 4. QTM

Question ID : **6172496054**
Status : **Not Answered**
Chosen Option : **--**
Marks : **0.00**

Q.19 निम्नांकित आरेख में पुरूषों को आयत से, शिक्षितों को त्रिभुज से, शहरी को वृत से और लोक सेवक को वर्ग से निरूपित किया गया है। इनमें से ऐसे व्यक्तियों की संख्या कितनी है, जोकि केवल लोक सेवक हैं लेकिन पुरूष नहीं हैं और न ही शहरी तथा न ही शिक्षित हैं?

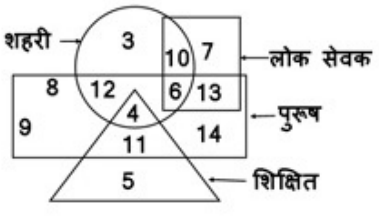

Ans
✘ 1. 9
✘ 2. 8
✔ 3. 7
✘ 4. 10

Question ID : **6172498274**
Status : **Not Answered**
Chosen Option : **--**
Marks : **0.00**

Q.20 एक सेल में सभी वस्तुओं पर 15% डिस्काउंट दिया जा रहा था । विनीत ने एक वस्तु रूपये 4,284 में सेल में खरीदी । उस वस्तु की वास्तविक विक्रय कीमत क्या थी

Ans
✘ 1. 5,050 रूपये
✔ 2. 5040 रूपये
✘ 3. 5,000 रूपये

Question ID : **6172497674**
Status : **Not Answered**
Chosen Option : **--**
Marks : **0.00**

Adda247 GET IT ON Google Play

✗ 4. 5,140 रूपये

Q.21 निम्न में से असंगत को चुनिए ?

Ans
✗ 1. गौरवपूर्ण
✓ 2. असहमत
✗ 3. समर्पित
✗ 4. परिश्रमी

Question ID : **6172496259**
Status : **Answered**
Chosen Option : **2**
Marks : **4.00**

Q.22 यदि किसी सांकेतिक भाषा में "HIGH" को "8978" लिखा जाता है तो BEEF को उसी भाषा में कैसे लिखा जाएगा?

Ans
✗ 1. 6252
✗ 2. 5562
✓ 3. 2556
✗ 4. 5256

Question ID : **6172496380**
Status : **Answered**
Chosen Option : **3**
Marks : **4.00**

Q.23 निम्न श्रृंखला में प्रश्नवाचक चिन्ह (?) के स्थान पर क्या आएगा
CEG, IKM, OQS, ?

Ans
✗ 1. TUV
✗ 2. TVX
✗ 3. VXZ
✓ 4. UWY

Question ID : **6172495994**
Status : **Not Answered**
Chosen Option : **--**
Marks : **0.00**

Q.24 निम्न लिखित में से कौन सा आरेख शिक्षक, शिक्षित, नौकरी-पेशा के बीच सम्बन्ध को सही रूप से दर्शाता है?

Ans

✗ 1. 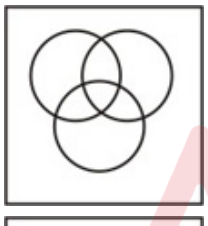

✗ 2. 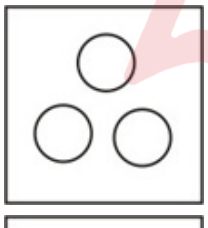

✓ 3. 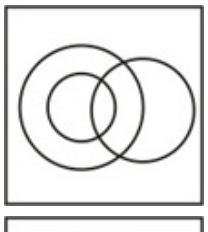

✗ 4. 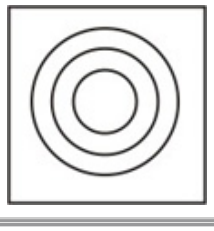

Question ID : **6172497734**
Status : **Answered**
Chosen Option : **1**
Marks : **-1.00**

Q.25 दिए गए विल्कपों में से प्रश्न आकृति का जल प्रतिबिम्ब क्या होगा?

Question ID : **6172498034**
Status : **Not Answered**
Chosen Option : **--**

Adda247 GET IT ON Google Play

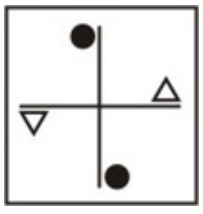

Marks : **0.00**

Ans

✗ 1. 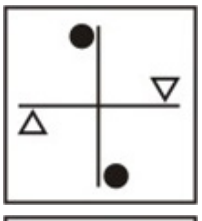

✗ 2. 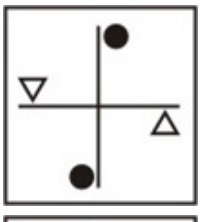

✗ 3. 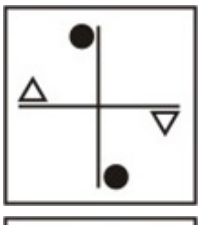

✓ 4. 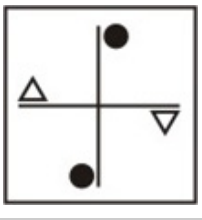

Q.26 नीचे एक ही पासे के दो प्रारूपों को दर्शाया गया है। इस पासे में अक्षर A के विपरीत फलक पर कौन-सा अक्षर होगा?

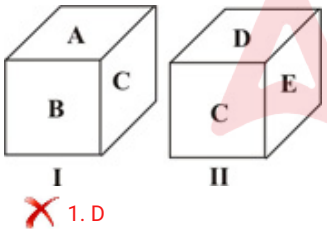

Question ID : **6172496954**
Status : **Not Answered**
Chosen Option : **--**
Marks : **0.00**

Ans

✗ 1. D

✗ 2. C

✓ 3. E

✗ 4. B

Q.27 X और Y की आयु के बीच का क्रमश: अनुपात 9:13 है । 8 वर्ष पूर्व उनकी आयु के बीच अनुपात क्रमश: 7 : 11 था । X की वर्तमान आयु कितनी है ?

Question ID : **6172498154**
Status : **Not Answered**
Chosen Option : **--**
Marks : **0.00**

Ans

✗ 1. 52 वर्ष

✗ 2. 43 वर्ष

✓ 3. 36 वर्ष

✗ 4. 49 वर्ष

Q.28 नीचे दिए गए कथनों के अनुसार कौनसा निष्कर्ष तर्कसंगत निकाला जा सकता है।
कथन : कुछ पंखे दीवार है।
सभी दीवार रेडियो हैं।

Question ID : **6172498334**
Status : **Answered**
Chosen Option : **1**

निष्कर्ष : I. कुछ पंखे रेडियो नहीं हैं ।
II. सभी रेडियो पंखे नहीं हैं।

Marks : -1.00

Ans
1. केवल निष्कर्ष I सही है
2. केवल निष्कर्ष II सही है
3. दोनों निष्कर्ष सही है
4. दोनों निष्कर्ष गलत है

Q.29 एक घड़ी 4 बजे समय दर्शा रही है घंटे की सुई के 90 अंश घूमने के बाद क्या समय होगा

Question ID : **6172497014**
Status : **Answered**
Chosen Option : **3**
Marks : **-1.00**

Ans
1. 9 बजे
2. 7 बजे
3. 8 बजे
4. 6 बजे

Q.30 निम्नलिखित तत्वों को दिए गए किसी न किसी आरेख में फिट बैठाया जा सकता है उसका चयन करें।
कमल, फूल, गुलाब

Question ID : **6172497794**
Status : **Answered**
Chosen Option : **3**
Marks : **4.00**

Ans

1. 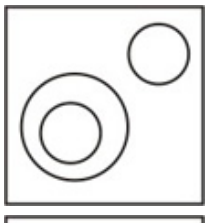

2. 

3. 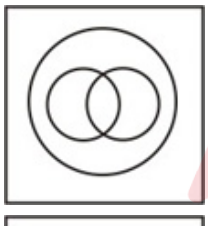

4. 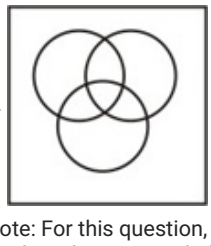

Note: For this question, discrepancy is found in question/answer. Full Marks is being awarded to all candidates.

Q.31 दिए गए विल्कपों में से प्रश्न आकृति का दर्पण प्रतिबिम्ब क्या होगा?

Question ID : **6172497854**
Status : **Not Answered**
Chosen Option : **--**
Marks : **0.00**

Ans

✗ 1.

✗ 2.

✗ 3.

✓ 4.

Q.32 दिए गए विकल्पों में से निम्नलिखित अक्षर समूह का जल प्रतिबिम्ब कौनसा होगा ?

Question ID : **6172498094**
Status : **Answered**
Chosen Option : **1**
Marks : **4.00**

Ans

✓ 1.

✗ 2.

✗ 3.

✗ 4.

Adda247 GET IT ON Google Play

Q.33 यदि 8 मई 2005 को शुक्रवार था तो बताओ 8 मई 2006 को कौनसा वार होगा ?

Ans
✔ 1. शनिवार
✘ 2. गुरूवार
✘ 3. शुक्रवार
✘ 4. रविवार

Question ID : **6172497074**
Status : **Answered**
Chosen Option : **1**
Marks : **4.00**

Q.34 निम्न प्रश्न में दिए गए विकल्पों में से प्रश्नवाचक चिन्ह के स्थान पर आने वाली संख्या ज्ञात किजीए।

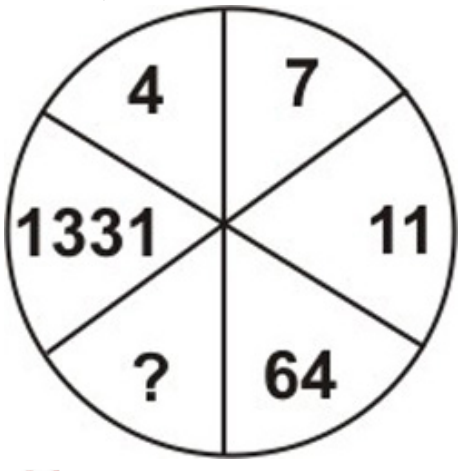

Ans
✘ 1. 430
✘ 2. 434
✔ 3. 343
✘ 4. 334

Question ID : **6172497194**
Status : **Not Answered**
Chosen Option : **--**
Marks : **0.00**

Q.35 श्रेणी 13, 16, 22, 33, 51, ? में लुप्त संख्या '?' क्या हैं ?

Ans
✘ 1. 102
✔ 2. 78
✘ 3. 69
✘ 4. 89

Question ID : **6172495899**
Status : **Not Answered**
Chosen Option : **--**
Marks : **0.00**

Q.36 एक पंक्ति में पांच घर A, B, C, D और E हैं। A, B के दाए और C के बाए है। E, A के दाए है। B, D के दाए है। यह बताइए कि कौन-सा घर मध्य में है?

Ans
✘ 1. D
✘ 2. E
✔ 3. A
✘ 4. B

Question ID : **6172496654**
Status : **Answered**
Chosen Option : **3**
Marks : **4.00**

Q.37 दिए गए शब्द का का दर्पण प्रतिबिम्ब क्या होगा?

WESTERN

Ans
✘ 1. NRETSEW
✘ 2. NSETERW
✘ 3. NRETSEW
✔ 4. NRETSEW

Question ID : **6172497914**
Status : **Not Answered**
Chosen Option : **--**
Marks : **0.00**

Q.38 निम्नांकित आरेख में वृत शिक्षित का, त्रिभुज ग्रामीण का, आयत बेरोजगार का प्रतिनिधित्व करता है तो कुल बेरोजगारों की संख्या क्या है?

Question ID : **6172498214**
Status : **Answered**

Adda247 GET IT ON Google Play

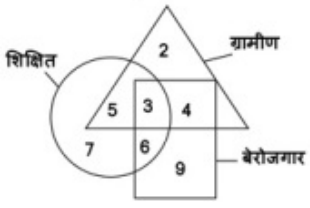

Chosen Option : **4**
Marks : **4.00**

Ans
✗ 1. 13
✗ 2. 25
✗ 3. 18
✓ 4. 22

Q.39 निम्न में से असंगत को चुनिए ?

Ans
✗ 1. गेंदा
✗ 2. गुलाब
✓ 3. कमल
✗ 4. ट्यूलिप

Question ID : **6172496260**
Status : **Answered**
Chosen Option : **4**
Marks : **-1.00**

Q.40 एक आदमी 13 वस्तुएं प्रत्येक रू 70 दाम वाली खरीदी, 15 वस्तुएं रू 60 दाम वाली और 12 वस्तुएं रू 65 दाम वाली । प्रति वस्तु औसत दाम है ?

Ans
✓ 1. रू 64.75
✗ 2. रू 60.25
✗ 3. रू 62.25
✗ 4. रू 65.75

Question ID : **6172497434**
Status : **Not Answered**
Chosen Option : **--**
Marks : **0.00**

Q.41 श्रेणी 5, 11, 32, ?, 444 में लुप्त संख्या '?' क्या हैं ?

Ans
✗ 1. 96
✗ 2. 98
✓ 3. 108
✗ 4. 109

Question ID : **6172495900**
Status : **Not Answered**
Chosen Option : **--**
Marks : **0.00**

Q.42 पीटर पश्चिम की ओर 5 मी. चलकर दायी ओर मुड़ जाता है और फिर 5 मी. चलता है, इसके बाद दायीं ओर मुड़ कर 20 मी. चलता है। अंत में दायीं ओर 5 मी. चलकर रूक जाता है। अब वह अपने चलने के प्रारम्भिक स्थान से कितनी दूर है ?

Ans
✗ 1. 5 मी.
✗ 2. 20 मी.
✗ 3. 25 मी.
✓ 4. 15 मी.

Question ID : **6172496774**
Status : **Answered**
Chosen Option : **4**
Marks : **4.00**

Q.43 नीचे दिए गए कथनों के अनुसार कौनसा निष्कर्ष तर्कसंगत निकाला जा सकता है।
कथन : कुछ पिन क्लिप है।
कुछ क्लिप पैन है।
निष्कर्ष : I. कुछ पिन पैन है।
II. कोई पिन पैन नहीं है।

Ans
✓ 1. या तो निष्कर्ष I या निष्कर्ष II सत्य है
✗ 2. दोनों निष्कर्ष गलत है
✗ 3. केवल निष्कर्ष I सही है
✗ 4. केवल निष्कर्ष II सही है

Question ID : **6172498394**
Status : **Answered**
Chosen Option : **2**
Marks : **-1.00**

Adda247 GET IT ON Google Play

Q.44 140 मीटर लंबी रेलगाडी 60 किमी/घंटा की चाल से चल रही है। यह 260 मीटर लंबी प्लेटफार्म को कितने समय में पार करेगी?

Ans
1. 29 सेकंड
2. 22 सेकंड
3. 24 सेकंड
4. 20 सेकंड

Question ID : **6172497494**
Status : **Not Answered**
Chosen Option : **--**
Marks : **0.00**

Q.45 $(13)^3$ का मान ज्ञात करें ?

Ans
1. 2196
2. 2197
3. 2195
4. 2097

Question ID : **6172497314**
Status : **Answered**
Chosen Option : **2**
Marks : **4.00**

Section : **सामान्य ज्ञान सामान्य विज्ञान और सामयिकी**

Q.1 जोग जलप्रपात किस नदी पर स्थित है ?

Ans
1. चम्बल
2. शरावती
3. कोवरी
4. नर्मदा

Question ID : **6172499312**
Status : **Answered**
Chosen Option : **3**
Marks : **-1.00**

Q.2 संविधान के किस अनुच्छेद में उपराष्ट्रपति पद का प्रावधान किया गया है ?

Ans
1. अनुच्छेद 63
2. अनुच्छेद 53
3. अनुच्छेद 76
4. अनुच्छेद 52

Question ID : **6172499937**
Status : **Answered**
Chosen Option : **4**
Marks : **-1.00**

Q.3 ऑस्ट्रेलिया में स्थित कालगुर्ली किसके लिए विख्यात है ?

Ans
1. शिक्षा केन्द्र
2. मुर्गी पालन
3. स्वर्ण उत्पादन
4. उतम जलवायु

Question ID : **6172499474**
Status : **Answered**
Chosen Option : **2**
Marks : **-1.00**

Q.4 खो खो नामक खेल में एक टीम में कितने खिलाडी होते है ?

Ans
1. 7
2. 9
3. 11
4. 12

Question ID : **6172498677**
Status : **Answered**
Chosen Option : **4**
Marks : **-1.00**

Q.5 किस राज्य को अनाज उत्पादन में उल्लेखनीय वृद्धि के लिए 2015-16 का कृषि कर्मण पुरस्कार दिया गया ?

Ans
1. मध्य प्रदेश
2. हिमाचल प्रदेश
3. कर्नाटक
4. उतर प्रदेश

Question ID : **6172498678**
Status : **Answered**
Chosen Option : **4**
Marks : **-1.00**

Adda247 GET IT ON Google Play

Q.6 दाब का माञक है ?

Ans
1. जूल
2. डाइन
3. पास्कल
4. अर्ग

Question ID : **6172498874**
Status : **Answered**
Chosen Option : **1**
Marks : **-1.00**

Q.7 फिल्म अभिनेता विनोद खन्ना किस पार्टी से लोकसभा सदस्य थे ?

Ans
1. BJP
2. Congress
3. समाजवादी पार्टी
4. शिव सेना

Question ID : **6172498675**
Status : **Answered**
Chosen Option : **1**
Marks : **4.00**

Q.8 संविधान के किस अनुच्छेद में संविधान के संशोधन की प्रक्रिया का उल्लेख है ?

Ans
1. अनुच्छेद 360
2. अनुच्छेद 356
3. अनुच्छेद 352
4. अनुच्छेद 368

Question ID : **6172499940**
Status : **Answered**
Chosen Option : **3**
Marks : **-1.00**

Q.9 कश्मीर का शासक जो कश्मीर का अकबर नाम से जाना जाता है, वह है ?

Ans
1. हैदरशाह
2. जैनुल आबिदीन
3. शम्सुद्दीन शाह
4. सिकन्दर बुतशिकन

Question ID : **6172499594**
Status : **Answered**
Chosen Option : **3**
Marks : **-1.00**

Q.10 स्तनी के ह्रदय में कितने कोष्ठ होते है ?

Ans
1. 3
2. 5
3. 4
4. 2

Question ID : **6172499080**
Status : **Answered**
Chosen Option : **4**
Marks : **-1.00**

Q.11 किस विटामिन की कमी से सूखा रोग होता है ?

Ans
1. विटामिन K
2. विटामिन D
3. विटामिन E
4. विटामिन B काम्पलेक्स

Question ID : **6172499079**
Status : **Answered**
Chosen Option : **4**
Marks : **-1.00**

Q.12 भारत ने किस देश के साथ कैदियों की अदला - बदली के लिए समझौते पर हस्ताक्षर किए है ?

Ans
1. सोमालिया
2. नाइजिरीया
3. अलजिरीया
4. ईथोपीया

Question ID : **6172498674**
Status : **Answered**
Chosen Option : **1**
Marks : **4.00**

Q.13 झरिया कोयला की खानें देश के किस राज्य में है ?

Ans
1. झारखण्ड

Question ID : **6172499310**
Status : **Answered**

Adda247 GET IT ON Google Play

2. आन्ध्र प्रदेश
3. पश्चिम बंगाल
4. ओडिसा

Chosen Option : 1
Marks : 4.00

Q.14 भारत में मुस्लिम लीग की स्थापना किस वर्ष हुई थी ?

Ans
1. 1903 ई. में
2. 1906 ई. में
3. 1908 ई. में
4. 1905 ई. में

Question ID : 6172499679
Status : Answered
Chosen Option : 2
Marks : 4.00

Q.15 सहारा मरूस्थल किस महाद्वीप में स्थित है ?

Ans
1. एशिया
2. अफ्रीका
3. अमेरिका
4. यूरोप

Question ID : 61724910014
Status : Answered
Chosen Option : 2
Marks : 4.00

Q.16 मार्ले-मिण्टो रिफोर्म्स को किस वर्ष में प्रस्तुत किया गया था ?

Ans
1. 1909
2. 1935
3. 1919
4. 1942

Question ID : 6172499680
Status : Answered
Chosen Option : 4
Marks : -1.00

Q.17 संविधान के किस अनुच्छेद में धन विधेयक की परिभाषा दी गई है ?

Ans
1. अनुच्छेद 124
2. अनुच्छेद 109
3. अनुच्छेद 103
4. अनुच्छेद 110

Question ID : 6172499938
Status : Answered
Chosen Option : 1
Marks : -1.00

Q.18 प्लास्टर ऑफ पेरिस (Plaster of Paris) का रासायनिक सूत्र है ?

Ans
1. $CaSO_4$, MgO
2. $CaSO_4$, $5H_2O$
3. $(CaSO_4)_2$, $2H_2O$
4. $2CaSO_4$, H_2O

Question ID : 6172498960
Status : Answered
Chosen Option : 3
Marks : -1.00

Q.19 जोजिला दर्रा किस राज्य में स्थित है ?

Ans
1. हिमाचल प्रदेश
2. उतराखंड
3. जम्मू कश्मीर
4. सिक्किम

Question ID : 6172499309
Status : Answered
Chosen Option : 3
Marks : 4.00

Q.20 डिजिटल कम्प्यूटर की कार्य पद्धति किस सिद्धांत पर आधारित है ?

Ans
1. इलेक्ट्रॉनिक परिपथ पर
2. मापन पर
3. गणना एवं तर्क पर
4. केवल तर्क पर

Question ID : 6172499174
Status : Answered
Chosen Option : 1
Marks : -1.00

Adda247 GET IT ON Google Play

Q.21 केन्द्र सरकार ने पावरलूम क्षेत्र के विकास के लिए देश के 45 स्थानों पर किस परियोजना का शुभारम्भ किया

Ans
1. इंडिया टेक्स
2. टेक्स इंडिया
3. पावरलूम इंडिया
4. पावरटेक्स इंडिया

Question ID : **6172498676**
Status : **Not Answered**
Chosen Option : **--**
Marks : **0.00**

Q.22 संविधान के किस अनुच्छेद में यह अंकित है कि भारत अर्थात् इंडिया राज्यों का एक संघ होगा ?

Ans
1. अनुच्छेद - 3
2. अनुच्छेद - 2
3. अनुच्छेद - 4
4. अनुच्छेद - 1

Question ID : **6172499939**
Status : **Not Answered**
Chosen Option : **--**
Marks : **0.00**

Q.23 भारत का जिस प्राकृतिक आपदा से सम्बन्ध नहीं है वह है ?

Ans
1. भूस्कलन
2. ज्वालामुखी
3. बाढ
4. भूकम्प

Question ID : **6172499311**
Status : **Answered**
Chosen Option : **2**
Marks : **4.00**

Q.24 सूखी बर्फ, निम्नलिखित में से क्या है ?

Ans
1. ठोस कार्बन डाईऑक्साइड
2. गैसीय कार्बन डाईऑक्साइड
3. कार्बन मोनोऑक्साइड
4. धोने का सोडा

Question ID : **6172498959**
Status : **Answered**
Chosen Option : **1**
Marks : **4.00**

Q.25 महावीर स्वामी का जन्म कहां हुआ ?

Ans
1. मगध में
2. पाटलिपुत्र में
3. वैशाली में
4. कुण्डग्राम में

Question ID : **6172499534**
Status : **Not Answered**
Chosen Option : **--**
Marks : **0.00**

Section : **राजस्थान इतिहास संस्कृति कला और भूगोल**

Q.1 राजस्थान में 'तिमनिया' नामक आभूषण पहना जाता है ?

Ans
1. सिर पर
2. हाथों पर
3. गले में
4. भुजाओं पर

Question ID : **61724910316**
Status : **Answered**
Chosen Option : **3**
Marks : **4.00**

Q.2 केन्द्रीय इलैक्ट्रोनिकी अभियांत्रिक का अनुसंधान कहां स्थित है ?

Ans
1. पिलानी
2. खेतड़ी
3. लोहार्गल
4. नरहड़

Question ID : **61724911608**
Status : **Answered**
Chosen Option : **2**
Marks : **-1.00**

Adda247 GET IT ON Google Play

Q.3 राज्य की कुल स्थलीय सीमा की लम्बाई है ?

Ans
1. 5091 किमी.
2. 5290 किमी.
3. 5090 किमी.
4. 5920 किमी.

Question ID : **61724911192**
Status : **Answered**
Chosen Option : **2**
Marks : **-1.00**

Q.4 सबसे अधिक सिंचाई देने वाली इंदिरा गांधी नहर से कौनसा क्षेत्र लाभान्वित हो रहा है ?

Ans
1. उतर - पश्चिम
2. सम्पूर्ण राजस्थान
3. दक्षिण - पश्चिमी
4. दक्षिण

Question ID : **61724911193**
Status : **Answered**
Chosen Option : **1**
Marks : **4.00**

Q.5 राजस्थान का ह्दय किस जिले को कहा जाता ?

Ans
1. अजमेर
2. जोधपुर
3. नागौर
4. जयपुर

Question ID : **61724911607**
Status : **Answered**
Chosen Option : **1**
Marks : **4.00**

Q.6 पश्चिमी राजस्थान की यात्रा नामक ग्रन्थ की रचना किसने की ?

Ans
1. अर्जुनलाल सेठी
2. सागरमल गोपा
3. जार्ज थामस
4. जेमस टॉड

Question ID : **61724911472**
Status : **Answered**
Chosen Option : **4**
Marks : **4.00**

Q.7 नृत्य जो केवल पुरूषों द्वारा किया जाता है ?

Ans
1. कत्थक
2. घूमर
3. कच्छी घोड़ी
4. तेरहताली

Question ID : **61724910317**
Status : **Answered**
Chosen Option : **3**
Marks : **4.00**

Q.8 केंद्र सरकार की महत्वाकांक्षी योजना स्मार्ट सिटी की तीसरी सूची में राजस्थान के कितने शहरों को शामिल किया गया है ?

Ans
1. पांच
2. चार
3. दो
4. तीन

Question ID : **61724911362**
Status : **Answered**
Chosen Option : **1**
Marks : **-1.00**

Q.9 परिखा' से तात्पर्य है ?

Ans
1. दुर्ग के चारों ओर खींची गई खाई
2. पर्वतीय क्षेत्रों में होने वाली खेती
3. राजस्थान में कृषि का एक प्रकार
4. मंदिर के चारों ओर खींची गई खाई

Question ID : **61724910125**
Status : **Answered**
Chosen Option : **1**
Marks : **4.00**

Q.10 राजस्थान एयर कार्गो काम्प्लेक्स स्थित है ?

Ans
1. जोधपुर

Question ID : **61724910894**
Status : **Not Answered**

Adda247 GET IT ON Google Play

✗ 2. जयपुर
✗ 3. उदयपुर
✓ 4. सांगानेर

Chosen Option : --
Marks : 0.00

Q.11 फलकू बाई किस नृत्य की नृत्यांगना है ?

Ans
✓ 1. चरी नृत्य
✗ 2. कच्छी घोडी
✗ 3. घूमर नृत्य
✗ 4. रसिया नृत्य

Question ID : **61724910124**
Status : **Answered**
Chosen Option : **1**
Marks : **4.00**

Q.12 राज्य के समस्त प्रशासन का मुखिया कौन होता है ?

Ans
✗ 1. मुख्यमंत्री सचिव
✗ 2. मुख्यमंत्री
✗ 3. राज्यपाल सचिव
✓ 4. मुख्य सचिव

Question ID : **61724910890**
Status : **Answered**
Chosen Option : **4**
Marks : **4.00**

Q.13 पुस्तक रखने के काष्ठ के उपकरण को क्या कहते है ?

Ans
✗ 1. टनका
✗ 2. टड्डा
✗ 3. चील
✓ 4. ठवणी

Question ID : **61724911473**
Status : **Answered**
Chosen Option : **4**
Marks : **4.00**

Q.14 पंचायती राज विषय संविधान की कौनसी सूची में शामिल है ?

Ans
✗ 1. अवशिष्ट सूची
✗ 2. समवर्ती सूची
✓ 3. राज्य सूची
✗ 4. संघ सूची

Question ID : **61724910889**
Status : **Answered**
Chosen Option : **2**
Marks : **-1.00**

Q.15 जांगल जनपद की राजधानी थी ?

Ans
✗ 1. विराटनगर (बैराठ)
✗ 2. मज्झमिका
✓ 3. अहिच्छत्रपुर
✗ 4. बयाना

Question ID : **61724910561**
Status : **Answered**
Chosen Option : **3**
Marks : **4.00**

Q.16 दयाबाई एवं सहजोबाई किस संत की शिष्याएं थी ?

Ans
✗ 1. संत पीपा
✓ 2. चरणदास
✗ 3. संत दादू
✗ 4. रामदेव जी

Question ID : **61724910314**
Status : **Answered**
Chosen Option : **3**
Marks : **-1.00**

Q.17 रणथम्भौर का युद्ध (सन् 1301 ई.) किसके मध्य हुआ था ?

Ans
✓ 1. अलाउद्दीन खिलजी तथा हम्मीर
✗ 2. अलाउद्दीन खिलजी तथा राणा रतन सिंह
✗ 3. मुहम्मद गौरी तथा पृथ्वीराज चौहान
✗ 4. बाबर तथा राणा सांगा

Question ID : **61724910559**
Status : **Answered**
Chosen Option : **3**
Marks : **-1.00**

Adda247 GET IT ON Google Play

Q.18 भारतीय मूर्तिकला का विश्वकोष किसे कहा जाता है ?

Ans
✔ 1. विजयस्तम्भ
✘ 2. किराडू मंदिर
✘ 3. रणकपुर मंदिर
✘ 4. देलवाड़ा मंदिर

Question ID : **61724910563**
Status : **Not Answered**
Chosen Option : **--**
Marks : **0.00**

Q.19 इतिहासकार फर्ग्यूसन ने राजस्थान के किन महलों को 'राजस्थान के विण्डसर' महलों की संज्ञा दी थी ?

Ans
✘ 1. आमेर के राजमहल को
✔ 2. उदयपुर के राजमहल को
✘ 3. जोधपुर के राजमहल को
✘ 4. बीकानेर के राजमहल को

Question ID : **61724911609**
Status : **Answered**
Chosen Option : **1**
Marks : **-1.00**

Q.20 राजस्थान में प्रचलित निम्न में से कौन नगरीय स्वशासन की संस्था नहीं है ?

Ans
✘ 1. नगर निगम
✔ 2. नगर पंचायत
✘ 3. नगरपालिका
✘ 4. नगर परिषद्

Question ID : **61724910893**
Status : **Answered**
Chosen Option : **2**
Marks : **4.00**

Q.21 राजस्थान में राज्य महिला आयोग की प्रथम अध्यक्ष किसे नियुक्त किया गया था ?

Ans
✘ 1. श्रीमती पवन सुराणा
✔ 2. श्रीमती कान्ता खतूरिया
✘ 3. श्रीमती प्रकाशवती
✘ 4. श्रीमती तारा भण्डारी

Question ID : **61724910891**
Status : **Not Answered**
Chosen Option : **--**
Marks : **0.00**

Q.22 17 जुलाई 1734 ई. को हुरड़ा सम्मेलन किसके विरूद्ध बुलाया गया था ?

Ans
✔ 1. मराठों के
✘ 2. निजाम के
✘ 3. अंग्रेजों के
✘ 4. मुगलों के

Question ID : **61724910560**
Status : **Answered**
Chosen Option : **3**
Marks : **-1.00**

Q.23 केन्द्रीय मंत्री मंडल में शामिल की गई राजस्थान की प्रथम महिला सांसद कौन है ?

Ans
✘ 1. श्रीमती कान्ता खतूरिया
✔ 2. डॉ. गिरिजा व्यास
✘ 3. श्रीमती वसुन्धरा राजे
✘ 4. श्रीमती शारदा भार्गव

Question ID : **61724910895**
Status : **Answered**
Chosen Option : **3**
Marks : **-1.00**

Q.24 चितौड़गढ़ में विजय स्तम्भ का निर्माण किसने करवाया ?

Ans
✘ 1. राणा प्रताप
✘ 2. अमरसिंह
✔ 3. राणा कुम्भा
✘ 4. उदयसिह

Question ID : **61724910562**
Status : **Not Answered**
Chosen Option : **--**
Marks : **0.00**

Q.25 राजस्थान में पंचायती राज व्यवस्था का शुभारम्भ किस पंचवर्षीय योजना के दौरान किया गया ?

Question ID : **61724910892**
Status : **Answered**

Ans
1. चौथी
2. पहली
3. दूसरी
4. तीसरी

Chosen Option : 1
Marks : -1.00

Q.26 कौनसा मेला भाद्रपद मास में आयोजित किया जाता है ?

Ans
1. जसवंत पशु मेला
2. बाणगंगा मेला
3. घुड़ला मेला
4. मर्तृहरि का मेला

Question ID : 61724910315
Status : Not Answered
Chosen Option : --
Marks : 0.00

Q.27 भोगलियां एवं कुलाबो क्या है ?

Ans
1. तलवार के नाम
2. नृत्यों के नाम
3. चित्रों के नाम
4. बर्तनों के नाम

Question ID : 61724910126
Status : Answered
Chosen Option : 4
Marks : -1.00

Q.28 राजस्थान का क्षेत्रफल भारत के कुल भौगोलिक क्षेत्र का है ?

Ans
1. 5.6%
2. 11.11%
3. 12%
4. 10.41%

Question ID : 61724911194
Status : Answered
Chosen Option : 4
Marks : 4.00

Q.29 दिसम्बर, 2016 में 44 वीं मिस्टर राजस्थान प्रतियोगिता किसने जीती ?

Ans
1. सुनिल कुमार
2. अर्शन खान
3. मुकेश चौधरी
4. सोनू बोरासी

Question ID : 61724911363
Status : Not Answered
Chosen Option : --
Marks : 0.00

Q.30 राजस्थान की वह कौनसी एकमात्र नदी है, जो कर्क रेखा को पार करती है ?

Ans
1. माही
2. लूणी
3. कालीसिन्ध
4. बनास

Question ID : 61724911195
Status : Answered
Chosen Option : 1
Marks : 4.00